# 10 مائلس پیٹھ لطف اندوزی

رُپالہِ چھ مائلن گژھن خوش کران۔ سوٲژ پننٮ۪ن دوستن سٟتۍ اکس مقامی مائلس پیٹھ۔ تٔمس دِژِ ما جہِ 50 روپیہِ۔ تمہٕ نیوٗ امہِ منٛز واریاہ کیٚنہہ پننٮ۪ن پسندیدٕ سوارٕ ین پیٹھ خرچاوِتھ۔

یِمن چیٖزن بچہٕ مائلس منٛز لطف چھُ تُلان تہٕ یِہنٛدِ موکھہٕ تِم مائلس منٛز چھِ گژھان، تِموکیٛاہ ہیوٚت تہٕ کاٚژاہ روپیہِ کرِکھ خرٕچ، اتھ متعلق کٔرِو کتھ۔

# مےٚ کوتاہ خرچوو؟





₹**10**

سوارٕن پٹھ خرچوومت کُل رقم =

رُپالی ہنزِ ماجہ ہندِ ذریعہ دِنہٕ آمت رقم − خرچ سپدمت رقم = رُپالی نِش ہُریومت رقم

رُپالی ہندس أکس دوستس نِش بچیأیہ 50 منزٕ 8۔ سوچھےٚ زانُن یژھان زِ تمہ کوت خرچوو۔ وِلو تمہِ سُند معلوم کرنک طریقہٕ وُچھو۔

مےٚ نِش چھےٚ ₹8 روپیہِ بچیأمژٕ تہٕ ₹20 روپیہ خرچاوِ مےٚ سوارٕن پٹھ، یمہ گیہ ₹28 روپیہ۔ پتہٕ خرچاوِ مےٚ ₹20 روپیہِ سِنیکن پٹھ، یمہ گیہ ₹48 روپیہِ تہٕ مےٚ خرچاوِ مزید 2 روپیہِ مٹھاین پٹھ، یمہ گیہ ₹50 روپیہِ۔ ٹوٹل خرچاوِ مےٚ 42 روپیہِ۔

₹8 + ₹**20** = ₹28

₹28 + ₹**20** = ₹48

₹48 + ₹**2** = ₹50

₹**42**

اگر توہہِ نِش ₹3 روپیہ بچیأیہ یێلہ ژھُنڈی مألی توہہ مألس گرٕ ھنہٕ باپتھ ₹40 روپیہِ دِژمژٕ آسہ، تیٚلہ وُنو توہہ کُژ روپیہ چھو خرچاوِمژٕ؟ معلوم کٔرِو۔

© NCERT not to be republished

## وٲلوکرو

ا۔ کٕژ روپیہِ پٮ۪ن ٲسۍ ہیٚنہٕ باپتھ ضرورت؟

| سوٲری | ٹِکٹن ہُند تعداد | رقم |
|---|---|---|
|  ₹20 | 2 | ₹_____ |
| ₹10 | _____ | ₹30 |
| ₹15 | 2 | ₹_____ |

ب۔ اسہِ وُچھ رُپالی تہٕ تمہِ سٕندۍ دوستو ذریعہ استعمال کرنہٕ آمتۍ مختلف نوٹ تہٕ ووٹہٕ روپیہِ۔ وٲلوو نۍ وُچھو باقی عام استعمال سپدن واجنۍ ہندوستانٕۍ کرنسی۔

₹100

₹200

₹500

## ج۔ وُچھوکٔرِ لٹہِ چھِ 500 کس نوٹس پیٹھ 500 لیکھتھ آسان۔




1۔ پانژھ ہتھ روپیہِ چھ لفظن منز ________ لٹہِ لیکھتھ آسان۔

2۔ پانژھ ہتھ چھ عددن منز ________ لٹہِ لیکھتھ آسان۔

500 نوٹس پیٹھ کمہِ تأریخی عمارژ شکل چھےٚ چھاپِتھ آسان؟ توہہِ چھوا یہِ تأریخی عمارت وُچھمٕژ؟

بچن ؤنوزِتم کرن باقین کرنسی نوٹن ہُند تہِ مشأہدٕ تہٕ پتہٕ کرن تہنزن خصوصیژن پیٹھ کتھ۔ تمن ہٕیٚژ کرِو باقین خاص چیزن مثالے کرنسی نوٹن ہندِس حاشیس پیٹھ لأنن متعلق تہٕ نابینا لوکن باپتھ پرٛتھ نوٹس پیٹھ نمبرن متعلق کتھ۔

تیجل نہِ نا نہِ ہاٖوی تٕمس کینہہ پرٲنؠ ووہڑٕ پونٛسہِ یم نہٕ تٕمؠ امہ برونہہ وُچھمٕتؠ ٲسؠ۔ ٲلوِمن ووہڑٕ پونٛسن کُن تہٕ تراوِو اکھ نظر۔

25 پونسہِ | 50 پونسہِ | 10 پونسہِ | 20 پونسہِ

تمہِ سنزنا نٲسؠ 1 روپیہِ بدل 50 پونسن ہندی 2 سِکہِ دوان۔

50 پونسہ + 50 پونسہ = ₹1

100 پونسہ = 1 روپے

ا۔ کِتیاہ 25 پونسہ بناون 1 روپے؟ بٔنزِ مِس ڈبس منز بناٖوِو ووہڑٕ پونسہِ۔

₹**1** =

یا

100 پونسہ

ب۔ کِتیاہ 20 پونسہِ بناون 1 روپے؟

# پھوکہِ بال پھاٹُنۍ

متروووت، پھوکہِ بال پھاٹُنۍ گیمہِ نِش۔ تٔمِس میلن 10 روپین 3 داو۔ وٕلوُ چھوسہ کوتاہ رقم زینہِ۔

ا۔ متروو س کِتۍ پونسہِ میلن اگر سہ ٔتِم پھوکہِ بالہِ پھاٹُو؟

| | |
|---|---|
| ₹3 | 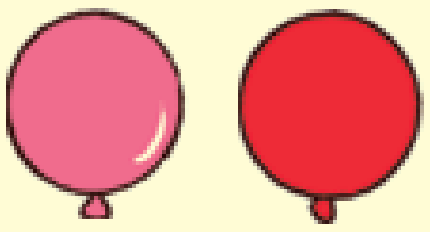 |
| |  |
| | |
| |  |

ب ۔ تِم پھوکہٕ بالہٕ بنأویوکھ تہٕ کرٕیوکھ رنگ یِم ژٕس پھاٹہٕ نی چھِ اگر ژٕس بُنِم رقم حأصل چھےٚ کرٕنی۔

| | |
|---|---|
| ₹17 | |
| ₹22 | |
| ₹31 | |

ج ۔ سارٕوے کھوتہٕ زیادٕ پونسہٕ زینِنہٕ باپتھ کم ترٛےٚ مختلف رنگہٕ دار پھوکہٕ بالہٕ بنأویوکھ ژٕہ نشانہٕ؟ بنأویوکھ تہٕ رنگ کرٕیوکھ۔

زیوٗنمُت کُل رقم = ______

د ۔ اگر متروٗس ترٛےٚ داوٕ میلی، کم ترٛےٚ مختلف رنگہٕ وألی پھوکہ ڈینگی پھاٹونہٕ یٕتہِ میلن ژٕس زیادٕ پونسہٕ؟ بنأویوکھ تہٕ رنگ کرٕیوکھ۔

زیوٗنمُت کُل رقم = ______

© NCERT not to be republished

## وُلو کرو

وُلو وُچھوزِ ₹66 کِتھٕ کٔنۍ ییہِ مختلف طریقو ادا کرنہٕ۔




دنہٕ آمٕت رقم بناونہٕ باپتھ بنأوِو مختلف ترتیبہ۔

<table>
<tr><th>₹50</th><th>₹20</th><th>₹10</th><th>₹5</th><th>₹2</th><th>₹1</th><th>رقم</th></tr>
<tr><td>—</td><td>2</td><td>3</td><td>—</td><td>2</td><td>—</td><td rowspan="4">50</td></tr>
<tr><td></td><td></td><td></td><td></td><td></td><td></td></tr>
<tr><td></td><td></td><td></td><td></td><td></td><td></td></tr>
<tr><td></td><td></td><td></td><td></td><td></td><td></td></tr>
<tr><td></td><td></td><td></td><td></td><td></td><td></td><td rowspan="5">85</td></tr>
<tr><td></td><td></td><td></td><td></td><td></td><td></td></tr>
<tr><td></td><td></td><td></td><td></td><td></td><td></td></tr>
<tr><td></td><td></td><td></td><td></td><td></td><td></td></tr>
<tr><td></td><td></td><td></td><td></td><td></td><td></td></tr>
</table>

© NCERT not to be republished

| چیز | یِم چیز ئلی ہیٚنہٕ باپتھ پونسن ہنز ضرورت۔ | پونسہٕ یِہ توہہ نِش چھُ | بچو وُمُت پونسہٕ / مزید پونسہٕ درکار |
| --- | --- | --- | --- |
| | ₹ ______ | | ₹ ______ |
| | ₹ ______ | | ₹ ______ |
| | ₹ ______ | | ₹ ______ |

## ؤلوکرو

| ₹ 1 8 | ₹ 1 5 |
|---|---|
| + ₹ 3 2 | + ₹ 2 7 |
| ______ | ______ |
| ₹ 4 7 | ₹ 2 2 |
| + ₹ 5 0 | + ₹ 3 5 |
| ______ | ______ |

توٚہہِ چھُواوُچھمُت زِکُنہ ساتہٕ چھِأ سۍ موبایل فونوذریعہ پونسہٕ اداکران؟

ا۔ جیانتن خرچاوِ25 روٗپیہ قلمن تہٕ 40روٗپیہ کاپیین پٹھ۔ تٔمۍ کوتاہ خرچوو کُلس منٛز؟

ب۔ میراہس نِش چھےٚ 43روٗپیہ۔ کنیکا یہِ نِش چھےٚ میرانہِ کھوتہٕ 14 روٗپیہ علاوٕ۔ تیٚلہ ؤنو کنیکا یہِ نِش کیٛتۍ پونسہٕ چھ؟

ج۔ اکِہ ڈبل ژوٚچہِ ہُنٛد ٕقیمتھ چھ30 روٗپیہِ تہٕ اکِہ چا کلیٹک ٕقیمتھ چھ60 روٗپیہ۔ وِویکس کیٛتۍ پونسہٕ گژھن آسٕنۍ یِم دوٚشوے چیز ٕلۍ ہیٚنہٕ باپتھ؟

د۔ اجے یس نِش چھ58روٗپیہ۔ تٔمۍ خرچاوِ بازرس منٛز48روٗپیہ۔ تٔمس نِش کیٛتۍ پونسہ چھ ووٚنۍ بچیاٚمتۍ؟

## پروجیکٹ کأم

ییٚلہِ تہِ توٚہہ پننِس مألِس ماجہِ سٕتۍ بازریا کُنہِ دُکانس پٹھ گژھن آسہ، تمن چیٖزن ہُنٛد فہرست بنأوِ ویِم توٚہہ ٕلۍ آسن ہیٚنۍ تہٕ بیٚیہِ وُچھو کُل کِتیاہ پونسہ گٔرِو توٚہہِ خرچ۔

یتھےٚ کِنۍ گٔرِ ووارِیاہ سیاق تخلیق تہٕ سوال پرٛژھِوزِ آیا بچن چھا جمع کرُن کِنہٕ تفریق۔ اکِہ کتھ باتھہِ ذریعہ گٔرِو بچن منٛز پونسہٕ بچاوٕنٕچ قدر پاٚدٕ۔